ハクチョウ検定　（上級問題）

ふりがな		点数
おなまえ		

「こたえ」の［　　］に正しいと思う①～③の番号を書きましょう

【もんだい1】　ハクチョウの「オス」と「メス」はどうやって見分けるでしょう。

①見ためではわからない
②オスのほうが首が長い
③メスのほうがくちばしが丸みがかっている

こたえ
①

【もんだい2】　平内町の鳥は「ハクチョウ」ですが、県内の他の自治体でも指定しているところがあります。さて、何市町村でしょう。（平内町以外）

①3市町村
②6市町村
③10市町村

こたえ
②

【もんだい3】　ハクチョウは何歳ぐらいまで生きるでしょう。

①60歳ぐらい
②40歳ぐらい
③20歳ぐらい

こたえ
③

【もんだい4】　「ハクチョウ」とは〇〇科（属種）の7種の水鳥の総称ですが、ハクチョウと分類が同じ鳥は次のうちどれでしょう。

①オナガカモ

②カモメ

③コサギ

こたえ
①

【もんだい5】　親ハクチョウが卵を抱えて温める期間はどれくらいでしょう。

①約100日
②約45日～60日
③約35日～40日

こたえ
③

【もんだい6】 町ではハクチョウの渡来する環境を保存管理するため、工作物を新・増設するときに高さを制限する基準を作っています。許可が必要となる高さは何mでしょう。

①10m以上
②20m以上
③30m以上

こたえ
②

【もんだい7】 ハクチョウは生まれてから　どれくらいで飛べるようになるでしょう。

①2週間後
②2か月後
③2年後

こたえ
②

【もんだい8】 ハクチョウは全部で7種類です。
次のうち平内町に<u>来たことがない</u>ハクチョウはどれでしょう。

①


②

③


こたえ
③

【もんだい9】 川は海へとつながっています。では、平内町にある川の中で浅所海岸へつながっている川は次のうちどれでしょう。

①汐立川
②清水川
③堀差川

こたえ
①

【もんだい10】1羽あたりのハクチョウの羽の枚数はどのくらいでしょう。

①約5，000枚
②約15，000枚
③約25，000枚

こたえ
③

【もんだい11】夜空に光る「白鳥座」は、日本ではどの季節に見られる星座でしょう

①春　②夏　③冬

こたえ
②

【もんだい12】昭和46年、ハクチョウのエサ不足を知った方がエサ代を匿名で寄付してくれました。
この方をのちに「白鳥おばさん」と呼ぶようになりましたが、次のうち誰でしょう。

①松浪　奈津子
②松波　夏子
③松並　菜摘子

こたえ
②

【もんだい13】夜になると視力が著しく衰え、目が見えなくなることを鳥の体の一部に例えて
何というでしょう。

①目白押し
②鵜の目鷹の目
③鳥目

こたえ
③

【もんだい14】平内でも昭和50年からハクチョウの渡りの調査を進めるために、各国ごとに
国際水禽調査局（IWRB）で定めた色分けしたカラーバンドをハクチョウにつけて
放鳥していました。日本のカラーバンドは何色でしょう。

①緑色
②黄色
③赤色

こたえ
①

【もんだい15】昭和30年頃から、ある養殖が始まったことによりハクチョウに最大の
ピンチが襲いました。それは何の養殖でしょう。

①ノリ養殖
②アサリ養殖
③ホタテ養殖

こたえ
①

【もんだい16】オオハクチョウは冬になると日本へ渡ってきます。
渡ってくるときのコースは2つあると言われていますが、正しくないのはどれでしょう。

①シベリア→カムチャッカ半島→千島列島→北海道
②シベリア→サハリン→北海道
③シベリア→朝鮮半島→北海道

こたえ
③

【もんだい17】オオハクチョウは5月頃から9月頃まで繁殖地であるシベリアで産卵し子育てをします。
オオハクチョウの繁殖地は地図で示す①～③のうちどこでしょう。

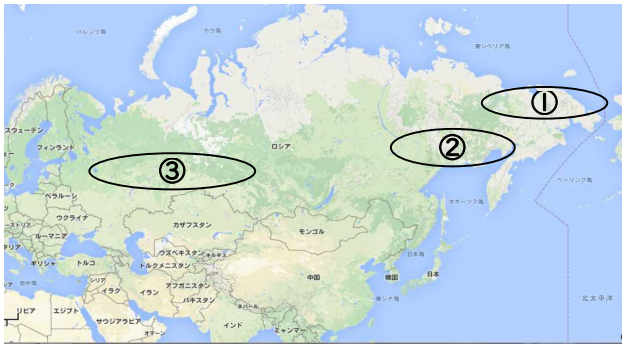

こたえ
②

【もんだい18】クラシックバレエの名曲である「白鳥の湖」の作曲者は誰でしょう

①ストラヴィンスキー
②チャイコフスキー
③モーツァルト

こたえ
②

【もんだい19】「小湊のハクチョウおよびその渡来地」の近くにあった浅所小学校が
ハクチョウの観察班を結成して本格的に観察を始めたのは昭和何年頃でしょう。

①昭和11年頃
②昭和21年頃
③昭和31年頃

こたえ
③

【もんだい20】オオハクチョウの体長（くちばしから尾翼の末端まで）はどれくらいでしょう。

①約1m00cm
②約1m40cm
③約2m40cm

こたえ
②